	İLKOKULU 2/ SINIFI	
	2012 – 2013 EĞİTİM ÖĞRETİM YILI	PROBLEM ÇÖZELİM 2
	Adı Soyadı : _____	17 Mart 2013
	Numarası : _____	

PROBLEM ÇÖZELİM 2

Problemlerin birimlerini yuvarlak içine almayı ve sonuçlara birim yazmayı unutmayın lütfen canlarım.

1. 9 yıl önce 12 yaşında olan Utku, 4 yıl sonra kaç yaşında olur?

2. 3 birlik 8 onluktan oluşan sayının 36 eksiği kaç eder?



3. ✸ – 39 = 29
   80 – ■ = 47

Yukarıda verilen çıkarma işlemlerine göre ✸ + ■ işleminin sonucu kaçtır?

5. 85 – A = 57
   B – 26 = 28

Yukarıda verilen çıkarma işlemlerine göre A + B işleminin sonucu kaçtır?

6. 27 + ⦿ = 92
   ◆ + 45 = 81

Yukarıda verilen toplama işlemlerine göre ⦿ + ◆ işleminin sonucu kaçtır?

7. Bir kasada 15 kilogram olan limonlardan 3 kasa alan manav 27 kilogramını satarsa geriye kaç kilogram limon kalır?

8. Nilay, 6 yaşındadır. İkiz ablaları Nilay'dan 8 yaş büyüktür. Üçünün yaşları toplamı kaçtır?

8. Rakamları aynı iki basamaklı en küçük doğal sayının 9 fazlası kaçtır?



www.canlarim12345.com

9. Berkay, 63 şekerinin bir miktarını arkadaşlarına ikram edince geriye 25 şekeri kalıyor. Berkay arkadaşlarına kaç şeker vermiştir? (Şablon yapınız)

10. Annem benim için 38 TL'ye bir ayakkabı, ayakkabıdan 15 TL daha fazlasıyla kendine bir etek aldı. Kasaya 80 tl veren annem kaç TL para üstü alır?

11.

18 TL

23 TL

8 TL

Ablam mağazadan bir çanta, bir pantolon ve iki kitap satın alıyor. Kasaya 60 TL ödüyor. Kaç TL para üstü alır?

12. Zeynep cevizlerinin 25 tanesini dağıtınca geriye 48 cevizi kalıyor. Zeynep'in cevizlerinin tamamı kaç tanedir? (Şablon yapınız)

13. Bir kırtasiyeci 76 kalemin bir miktarını satınca 47 kalem kalıyor. Buna göre kırtasiyeci kalemlerin kaç tanesini satmıştır? (Şablon yapınız)

14.

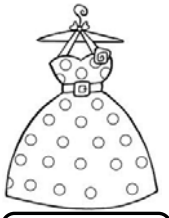

33 TL

48 TL

Annem yukarıdaki ürünlerin fiyatlarının toplamını tahmin edecektir. Tahmin ederken en yakın onluklardan yararlanacaktır.

Buna göre, annemin tahmini kaç TL olur?

www.canlarim12345.com